Dizaines et unités : nombres à deux chiffres

Nom: _____ Date: _____

Feuille d’exercices

Une réglette = 10. Un petit carré = 1.

1



Dizaines : __ Unités : __

Nombre : _____

2



Dizaines : __ Unités : __

Nombre : _____

3



Dizaines : __ Unités : __

Nombre : _____

4

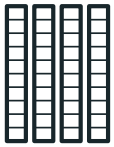

Dizaines : __ Unités : __

Nombre : _____

5



Dizaines : __ Unités : __

Nombre : _____

6

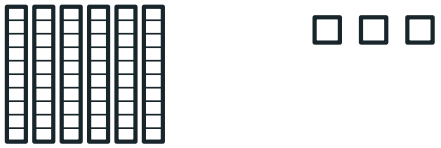

Dizaines : __ Unités : __

Nombre : _____

7

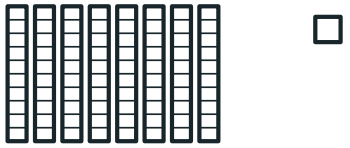

Dizaines : __ Unités : __

Nombre : _____

8



Dizaines : __ Unités : __

Nombre : _____

Dizaines et unités : nombres à deux chiffres · Corrigé

Nom: _____ Date: _____

Corrigé

Une réglette = 10. Un petit carré = 1.

1



Dizaines : 3 Unités : 4

Nombre : 34

2



Dizaines : 5 Unités : 2

Nombre : 52

3



Dizaines : 1 Unités : 7

Nombre : 17

4

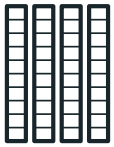

Dizaines : 4 Unités : 0

Nombre : 40

5



Dizaines : 2 Unités : 6

Nombre : 26

6

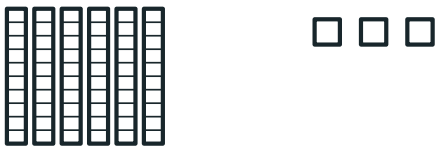

Dizaines : 6 Unités : 3

Nombre : 63

7

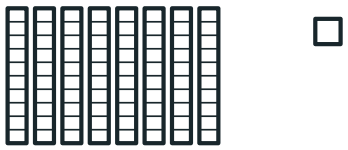

Dizaines : 8 Unités : 1

Nombre : 81

8



Dizaines : 9 Unités : 5

Nombre : 95