# Petits bonds sur une droite numérique

Pars du nombre marqué. Fais les bonds indiqués et encercle ton arrivée.

Prénom _____ Date _____

2 + 1 = _____

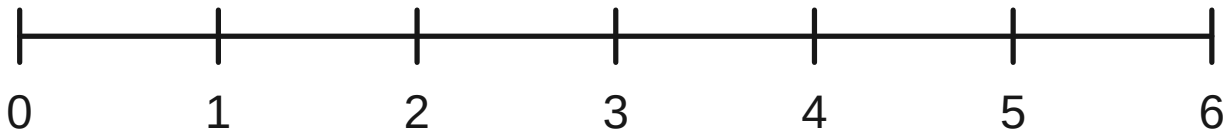


1 + 3 = _____

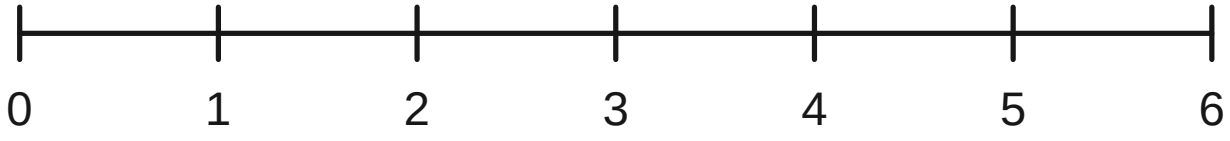


3 + 2 = _____

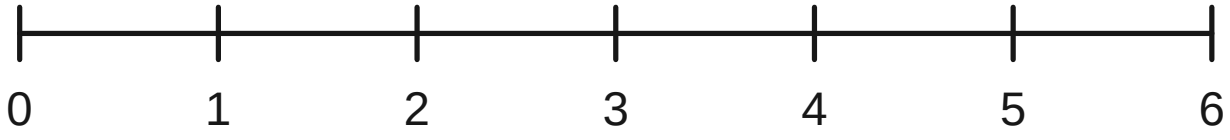

# Petits bonds sur une droite numérique

Pars du nombre marqué. Fais les bonds indiqués et encercle ton arrivée.

Prénom _____ Date _____

2 + 1 = 3

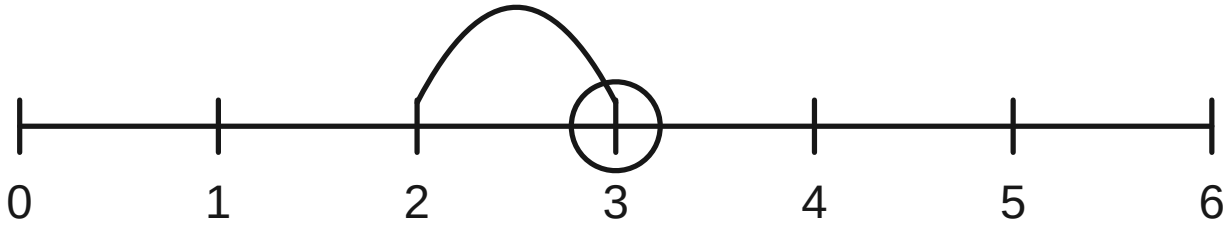


1 + 3 = 4

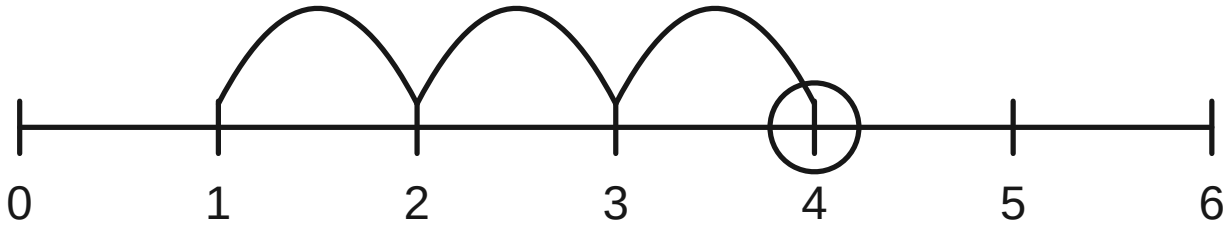


3 + 2 = 5

