Petits bonds sur une droite numérique

Pars du nombre marqué. Fais les bonds indiqués et encercle ton arrivée.

Prénom _____ Date _____

2 + 1 = _____

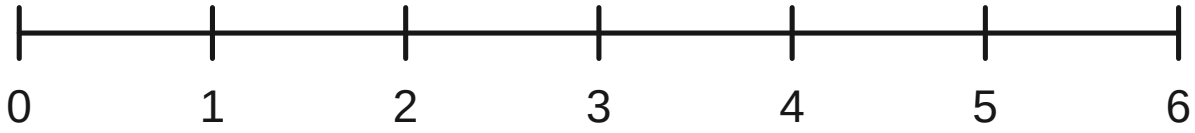

1 + 3 = _____

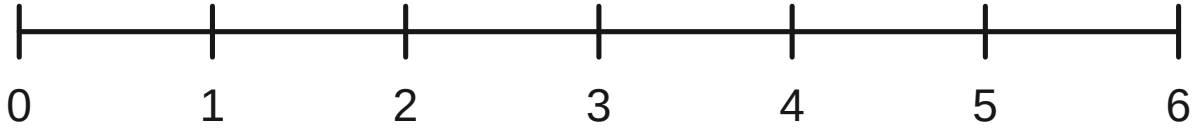

3 + 2 = _____

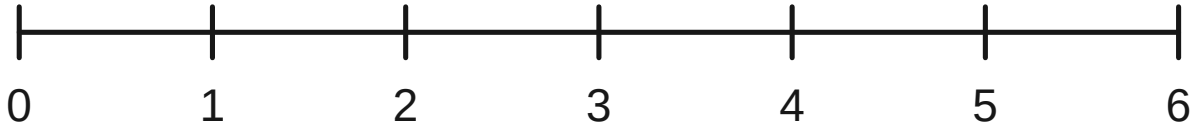

Petits bonds sur une droite numérique

Pars du nombre marqué. Fais les bonds indiqués et encercle ton arrivée.

Prénom _____ Date _____

2 + 1 = 3

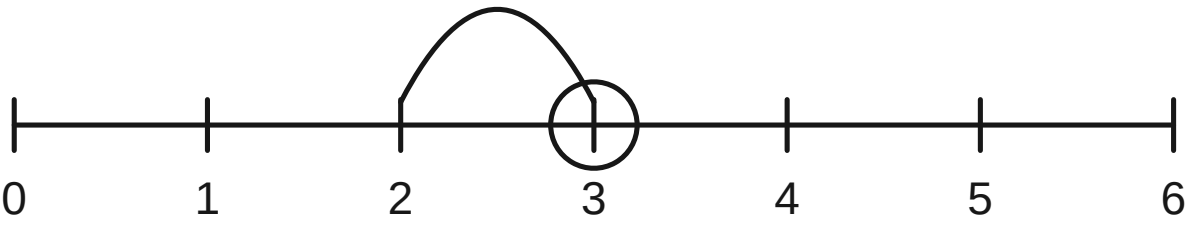

1 + 3 = 4

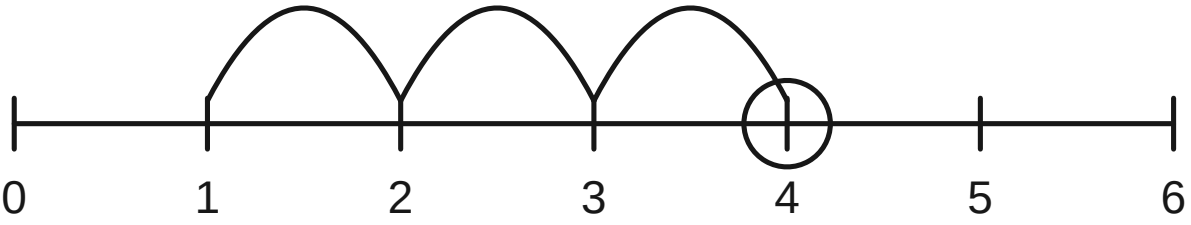

3 + 2 = 5

