# Une suite qui grandit

Observe les groupes de fleurs. Dessine le suivant et explique le changement.

Prénom _____ Date _____

1 

2 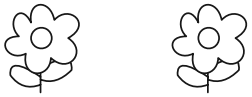

3 

4 ?

Chaque groupe gagne un élément.

# Une suite qui grandit

Observe les groupes de fleurs. Dessine le suivant et explique le changement.

Prénom _____ Date _____

1 

2 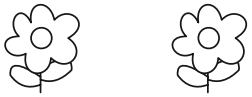

3 

4 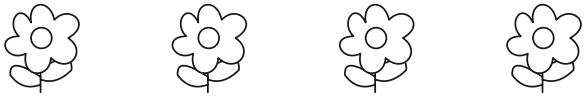

Chaque groupe gagne un élément.