Decenas y unidades: números de dos cifras

Nombre: _____ Fecha: _____

Hoja de práctica

Una barra = 10. Un cuadrito = 1.

1



Decenas: __ Unidades: __

Número: ____

2



Decenas: __ Unidades: __

Número: ____

3



Decenas: __ Unidades: __

Número: ____

4

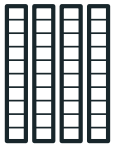

Decenas: __ Unidades: __

Número: ____

5



Decenas: __ Unidades: __

Número: ____

6

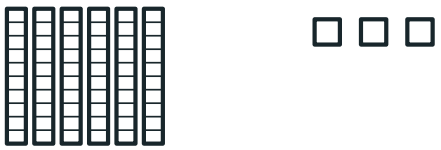

Decenas: __ Unidades: __

Número: ____

7

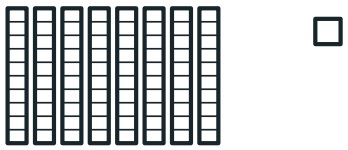

Decenas: __ Unidades: __

Número: ____

8



Decenas: __ Unidades: __

Número: ____

Decenas y unidades: números de dos cifras · Respuestas

Nombre: _____ Fecha: _____

Hoja de respuestas

Una barra = 10. Un cuadrito = 1.

1



Decenas: 3 Unidades: 4

Número: 34

2



Decenas: 5 Unidades: 2

Número: 52

3



Decenas: 1 Unidades: 7

Número: 17

4

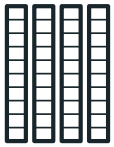

Decenas: 4 Unidades: 0

Número: 40

5



Decenas: 2 Unidades: 6

Número: 26

6

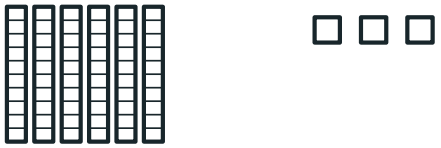

Decenas: 6 Unidades: 3

Número: 63

7

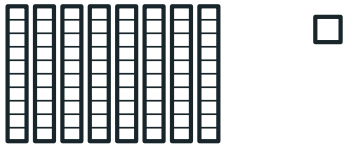

Decenas: 8 Unidades: 1

Número: 81

8



Decenas: 9 Unidades: 5

Número: 95