Un patrón que disminuye

Observa los grupos de estrellas. Dibuja el siguiente.
¿Cuántas desaparecen cada vez?

Nombre _____ Fecha _____

1 

2 

3 

4 

Cada grupo pierde uno.

Un patrón que disminuye

Observa los grupos de estrellas. Dibuja el siguiente.
¿Cuántas desaparecen cada vez?

Nombre _____ Fecha _____

1 

2 

3 

4 

Cada grupo pierde uno.