Una fila de dibujos tiene un inicio

Empieza en el punto izquierdo. Numera los dibujos al recorrer cada fila.

Nombre _____ Fecha _____



Una fila de dibujos tiene un inicio

Empieza en el punto izquierdo. Numera los dibujos al recorrer cada fila.

Nombre _____ Fecha _____

-    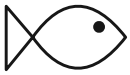

  1 2 3 4

-    

  1 2 3 4

-    

  1 2 3 4