Dos mitades forman un todo

Une las dos mitades que forman cada figura. Compara los bordes exteriores.

Nombre _____ Fecha _____

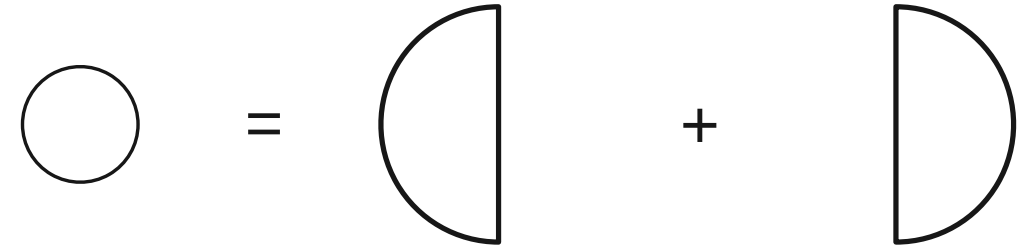



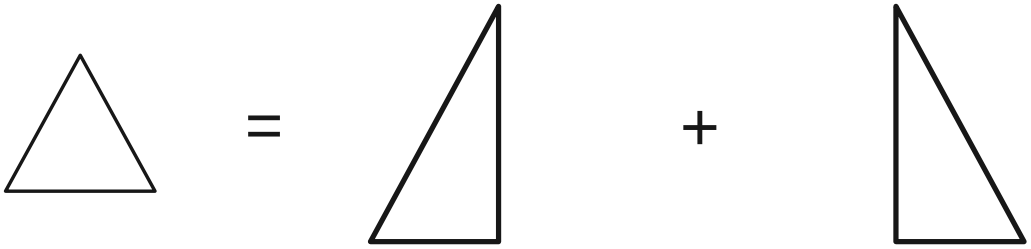

Dos mitades forman un todo

Une las dos mitades que forman cada figura. Compara los bordes exteriores.

Nombre _____ Fecha _____

