Una mirada a los marcos de cinco

Observa cada marco. Encierra su cantidad. Cuenta para comprobar cuando quieras.

Nombre _____ Fecha _____



1 2 3 4 5



1 2 3 4 5



1 2 3 4 5



1 2 3 4 5

Una mirada a los marcos de cinco

Observa cada marco. Encierra su cantidad. Cuenta para comprobar cuando quieras.

Nombre _____ Fecha _____



1 (2) 3 4 5



1 2 3 (4) 5



(1) 2 3 4 5



1 2 3 4 (5)