Grupos iguales: cuenta y multiplica

Nombre: _____ Fecha: _____

Hoja de práctica

Cuenta los grupos y los puntos de cada uno.

1



__ grupos de __

___ × ___ = ___

2

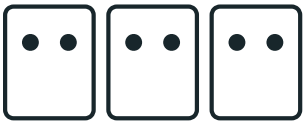

__ grupos de __

___ × ___ = ___

3



__ grupos de __

___ × ___ = ___

4



__ grupos de __

___ × ___ = ___

5



__ grupos de __

___ × ___ = ___

6

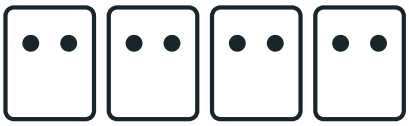

__ grupos de __

___ × ___ = ___

Grupos iguales: cuenta y multiplica · Respuestas

Nombre: _____ Fecha: _____

Hoja de respuestas

Cuenta los grupos y los puntos de cada uno.

1



2 grupos de 3

2 × 3 = 6

2

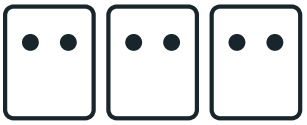

3 grupos de 2

3 × 2 = 6

3



4 grupos de 4

4 × 4 = 16

4



5 grupos de 3

5 × 3 = 15

5



3 grupos de 4

3 × 4 = 12

6

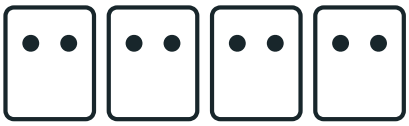

4 grupos de 2

4 × 2 = 8